تم تحميل وعرض المادة من منصة

حقيبتي
www.haqibati.net

منصة حقيبتي التعليمية

منصة حقيبتي هو موقع تعليمي يعمل على تسهيل العملية التعليمية بطريقة بسيطة وسهلة وتوفير كل ما يحتاجه المعلم والطالب لكافة الصفوف الدراسية كما يحتوي الموقع على حلول جميع المواد مع الشروح المتنوعة للمعلمين.

GET IT ON Google Play

Download on the App Store

حمل التطبيق من هنا

المملكة العربية السعودية وزارة التعليم إدارة التعليم ..... مدرسة	وزارة التعليم Ministry of Education	المادة	الأحياء ١
		الاختبار	الفترة الثانية
		الصف	الأول الثانوي
		الفصل الدراسي	الأول
		العام الدراسي	١٤٤٨ هـ

اسم الطالب/ة	.....	الدرجة	..... من ٢٠

السؤال الأول | اختر الإجابة الصحيحة			٦ درجات
١ - أيّ مادة تدخل في تركيب الجدار الخلوي للفطريات؟			
(أ) السليلوز	(ب) الكايتين	(ج) النشا	(د) الكلوروفيل
٢ - أيّ مما يأتي مثال على فطر وحيد الخلية؟			
(أ) المشروم	(ب) عفن الخبز	(ج) الكمأة	(د) الخميرة
٣ - أيّ شُعبة فطرية تنتج أبواغًا سوطية؟			
(أ) اللزجة المختلطة	(ب) الاقترانية	(ج) الكيسية	(د) الدعامية
٤ - ما الخلية الناتجة من اندماج الحيوان المنوي بالبويضة؟			
(أ) البويضة	(ب) البلاستيولا	(ج) اللاقحة	(د) النسيج
٥ - أيّ الحيوانات الآتية مثال على عدم التناظر؟			
(أ) قنديل البحر	(ب) الإسفنج	(ج) الطائر الطنّان	(د) الجراد
٦ - ما وظيفة الخلايا اللاسعة في أثناء التغذّي؟			
(أ) تحريك الماء	(ب) إنتاج الأبواغ	(ج) تكوين الشويكات	(د) الإمساك بالفريسة

السؤال الثاني | ضع كلمة «صح» أو «خطأ» أمام كل عبارة	٤ درجات
العبارة	الإجابة
١ - تفرز الفطريات إنزيمات تحلّل الغذاء ثم تمتص نواتج هضمه.	( )
٢ - يزداد نموّ الأشنات كلما زاد تلوّث الهواء.	( )
٣ - تحتوي الخلايا الحيوانية على جدر خلوية.	( )
٤ - يُسمّى الحيوان الذي ينتج البويضات والحيوانات المنوية بالخنثى.	( )

حقيبتي
www.haqibati.net

السؤال الثالث | أكمل جدول المقارنة		٤ درجات
التركيب أو نوع الفطر	وجه المقارنة	الإجابة
١ - الفطريات الرميّة	مصدر الغذاء	.....
٢ - الفطريات التطفّلية	مصدر الغذاء	.....
٣ - الهيكل الخارجي	الوظيفة	.....
٤ - الهيكل الداخلي	الوظيفة	.....

السؤال الرابع | اذكر وظيفة أو فائدة لكل ممّا يأتي	٤ درجات
١ - الجسم الثمري في الفطر	
٢ - الفطريات الجذرية بالنسبة إلى النبات	
٣ - الخلايا المطوّقة في الإسفنج	
٤ - الشبكة العصبية في اللاسعات	

حقيبتي
www.haqibati.net

السؤال الخامس | تأمّل الصور ثم أجب	درجتان
١ - ما طريقة التكاثر اللاجنسي الظاهرة في صورة الخميرة؟	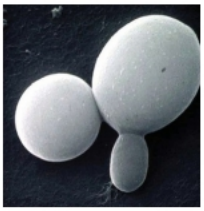
٢ - ما نوع التناظر الذي يوضّحه الشكل لقنديل البحر؟	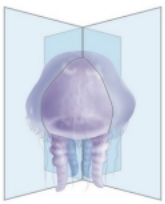

انتهت الأسئلة، مع تمنياتنا بالتوفيق

لكل فقرة درجة واحدة

حقيبتي
www.haqibati.net

نموذج الاجابة

المادة	الأحياء ١
الاختبار	الفترة الثانية
الصف	الأول الثانوي
الفصل الدراسي	الأول
العام الدراسي	١٤٤٨ هـ

اسم الطالب/ة	.....	الدرجة	..... من ٢٠

السؤال الأول | اختر الإجابة الصحيحة				٦ درجات
١ - أيّ مادة تدخل في تركيب الجدار الخلوي للفطريات؟				
(أ) السليلوز	(ب) الكايتين	(ج) النشا	(د) الكلوروفيل	
٢ - أيّ مما يأتي مثال على فطر وحيد الخلية؟				
(أ) المشروم	(ب) عفن الخبز	(ج) الكمأة	(د) الخميرة	
٣ - أيّ شُعبة فطرية تنتج أبواغًا سوطية؟				
(أ) اللزجة المختلطة	(ب) الاقترانية	(ج) الكيسية	(د) الدعامية	
٤ - ما الخلية الناتجة من اندماج الحيوان المنوي بالبويضة؟				
(أ) البويضة	(ب) البلاستيولا	(ج) اللاقحة	(د) النسيج	
٥ - أيّ الحيوانات الآتية مثال على عدم التناظر؟				
(أ) قنديل البحر	(ب) الإسفنج	(ج) الطائر الطنّان	(د) الجراد	
٦ - ما وظيفة الخلايا اللاسعة في أثناء التغذّي؟				
(أ) تحريك الماء	(ب) إنتاج الأبواغ	(ج) تكوين الشويكات	(د) الإمساك بالفريسة	

السؤال الثاني | ضع كلمة «صح» أو «خطأ» أمام كل عبارة	٤ درجات
العبارة	الإجابة
١ - تفرز الفطريات إنزيمات تحلّل الغذاء ثم تمتص نواتج هضمه.	صح
٢ - يزداد نموّ الأشنات كلما زاد تلوّث الهواء.	خطأ
٣ - تحتوي الخلايا الحيوانية على جدر خلوية.	خطأ
٤ - يُسمّى الحيوان الذي ينتج البويضات والحيوانات المنوية بالخنثى.	صح

حقيبتي
www.haqibati.net

السؤال الثالث | أكمل جدول المقارنة		٤ درجات
التركيب أو نوع الفطر	وجه المقارنة	الإجابة
١ - الفطريات الرميّة	مصدر الغذاء	المخلوقات الميتة أو الفضلات العضوية.
٢ - الفطريات التطفّلية	مصدر الغذاء	مخلوق حيّ عائل.
٣ - الهيكل الخارجي	الوظيفة	يدعم الجسم ويحمي أنسجته الطريّة.
٤ - الهيكل الداخلي	الوظيفة	يدعم الجسم ويحمي أعضاءه الداخلية.

السؤال الرابع | اذكر وظيفة أو فائدة لكل ممّا يأتي	٤ درجات
١ - الجسم الثمري في الفطر إنتاج الأبواغ.	
٢ - الفطريات الجذرية بالنسبة إلى النبات تساعد النبات على امتصاص الماء والمعادن.	
٣ - الخلايا المطوّقة في الإسفنج تحرّك الماء وتلتقط منه دقائق الغذاء.	
٤ - الشبكة العصبية في اللاسعات تنقل السيالات العصبية لتنسيق الاستجابة للمؤثّرات.	

السؤال الخامس | تأمّل الصور ثم أجب	درجتان
١ - ما طريقة التكاثر اللاجنسي الظاهرة في صورة الخميرة؟ التبرعم	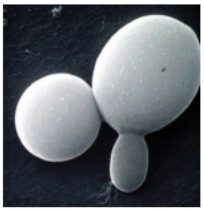
٢ - ما نوع التناظر الذي يوضّحه الشكل لقنديل البحر؟ التناظر الشعاعي	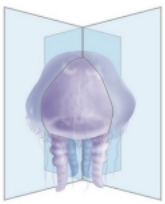

انتهت الأسئلة، مع تمنياتنا بالتوفيق

لكل فقرة درجة واحدة

حقيبتي
www.haqibati.net

نموذج الاجابة

إدارة التعليم		المادة	الأحياء ١
مدرسة		الاختبار	الفترة الثانية
		الصف	الأول الثانوي
		الفصل الدراسي	الأول
		العام الدراسي	١٤٤٨ هـ

اسم الطالب/ـة	.....	الدرجة	..... من ٢٠

السؤال الأول | اختر الإجابة الصحيحة — ٦ درجات

١ – ما اسم الفواصل بين خلايا الخيط الفطري المقسَّم؟

(أ) الحواجز	(ب) الممصّات	(ج) الأبواغ	(د) أشباه الجذور

٢ – إلى أيّ شُعبة ينتمي عفن الخبز الأسود؟

(أ) الدعامية	(ب) الاقترانية	(ج) الكيسية	(د) اللزجة المختلطة

٣ – من أيّ فطر يُستخرج البنسلين؟

(أ) الخميرة	(ب) الكمأة	(ج) المشروم	(د) البنسيليوم

٤ – ما نوع الإخصاب إذا اتّحد الحيوان المنوي بالبويضة خارج جسم الأنثى؟

(أ) إخصاب داخلي	(ب) تبرعم	(ج) إخصاب خارجي	(د) تجزّؤ

٥ – ما الصفة التي يفصل وفقها الفرع الأول في مخطط العلاقات التركيبية للحيوانات؟

(أ) نوع التناظر	(ب) وجود الأنسجة	(ج) تقسيم الجسم	(د) تجويف الجسم

٦ – أين يتم هضم الغذاء عند اللاسعات؟

(أ) التجويف المعوي الوعائي	(ب) اللوامس	(ج) الشبكة العصبية	(د) الخلايا اللاسعة

السؤال الثاني | أكمل الفراغ بالمصطلح المناسب — ٤ درجات

١ – تُسمّى الكتلة المتكوّنة من الخيوط الفطرية المتشابكة .....

٢ – تُسمّى علاقة التكافل بين فطر وطحلب أخضر .....

٣ – تُسمّى الكرة المجوّفة من الخلايا في التكوين الجنيني المبكر .....

٤ – تُسمّى الحيوانات التي ليس لها عمود فقري .....

حقيبتي
www.haqibati.net

السؤال الثالث | ضع كلمة «صح» أو «خطأ» أمام كل عبارة	٦ درجات
العبارة	الإجابة
١ – جميع الفطريات عديدة الخلايا.	( )
٢ – يمكن أن تنتج الأبواغ في التكاثر الجنسي أو اللاجنسي للفطريات.	( )
٣ – تُستخدم بعض الفطريات في المعالجة الحيوية للملوّثات.	( )
٤ – جميع الحيوانات تتحرّك في جميع مراحل حياتها.	( )
٥ – للإسفنجيات أنسجة حقيقية.	( )
٦ – يُبطَّن التجويف الجسمي الحقيقي بالكامل بنسيج من الطبقة الوسطى.	( )

السؤال الرابع | تأمّل الصور ثم أجب	٤ درجات
جذر نبات تحيط به خيوط فطرية.	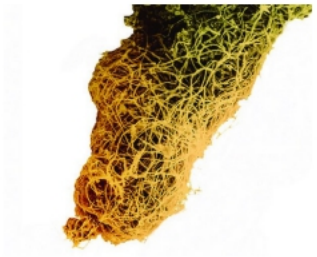
١ – ما اسم العلاقة التكافلية بين الفطر والجذر في الصورة؟	
٢ – اذكر نوعًا واحدًا من المواد التي يحصل عليها الفطر من النبات.	
مقطع في جسم حيوان من اللاسعات.	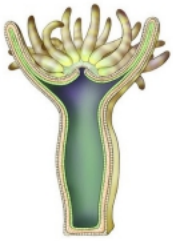
٣ – ما الطور الجسمي الذي يمثّله شكل هذا الحيوان؟	
٤ – ما وظيفة اللوامس في الحصول على الغذاء؟	

انتهت الأسئلة، مع تمنياتنا بالتوفيق

لكل فقرة درجة واحدة

حقيبتي
www.haqibati.net

مدرسة		المادة	الأحياء ١
		الاختبار	الفترة الثانية
		الصف	الأول الثانوي
		الفصل الدراسي	الأول
		العام الدراسي	١٤٤٨ هـ

نموذج الاجابة

اسم الطالب/ـة	.....	الدرجة	..... من ٢٠

السؤال الأول | اختر الإجابة الصحيحة			٦ درجات
١ – ما اسم الفواصل بين خلايا الخيط الفطري المقسَّم؟			
(أ) الحواجز	(ب) الممصّات	(ج) الأبواغ	(د) أشباه الجذور
٢ – إلى أيّ شُعبة ينتمي عفن الخبز الأسود؟			
(أ) الدعامية	(ب) الاقترانية	(ج) الكيسية	(د) اللزجة المختلطة
٣ – من أيّ فطر يُستخرج البنسلين؟			
(أ) الخميرة	(ب) الكمأة	(ج) المشروم	(د) البنسيليوم
٤ – ما نوع الإخصاب إذا اتّحد الحيوان المنوي بالبويضة خارج جسم الأنثى؟			
(أ) إخصاب داخلي	(ب) تبرعم	(ج) إخصاب خارجي	(د) تجزّؤ
٥ – ما الصفة التي يفصل وفقها الفرع الأول في مخطط العلاقات التركيبية للحيوانات؟			
(أ) نوع التناظر	(ب) وجود الأنسجة	(ج) تقسيم الجسم	(د) تجويف الجسم
٦ – أين يتم هضم الغذاء عند اللاسعات؟			
(أ) التجويف المعوي الوعائي	(ب) اللوامس	(ج) الشبكة العصبية	(د) الخلايا اللاسعة

السؤال الثاني | أكمل الفراغ بالمصطلح المناسب	٤ درجات
١ – تُسمّى الكتلة المتكوّنة من الخيوط الفطرية المتشابكة الغزل الفطري.	
٢ – تُسمّى علاقة التكافل بين فطر وطحلب أخضر الأشنات.	
٣ – تُسمّى الكرة المجوّفة من الخلايا في التكوين الجنيني المبكر البلاستيولا.	
٤ – تُسمّى الحيوانات التي ليس لها عمود فقري اللافقاريات.	

حقيبتي
www.haqibati.net

السؤال الثالث | ضع كلمة «صح» أو «خطأ» أمام كل عبارة	٦ درجات
العبارة	الإجابة
١ – جميع الفطريات عديدة الخلايا.	خطأ
٢ – يمكن أن تنتج الأبواغ في التكاثر الجنسي أو اللاجنسي للفطريات.	صح
٣ – تُستخدم بعض الفطريات في المعالجة الحيوية للملوّثات.	صح
٤ – جميع الحيوانات تتحرّك في جميع مراحل حياتها.	خطأ
٥ – للإسفنجيات أنسجة حقيقية.	خطأ
٦ – يُبطَّن التجويف الجسمي الحقيقي بالكامل بنسيج من الطبقة الوسطى.	صح

السؤال الرابع | تأمّل الصور ثم أجب	٤ درجات
جذر نبات تحيط به خيوط فطرية.	
١ – ما اسم العلاقة التكافلية بين الفطر والجذر في الصورة؟ الفطريات الجذرية	
٢ – اذكر نوعًا واحدًا من المواد التي يحصل عليها الفطر من النبات. الكربوهيدرات، أو الأحماض الأمينية.	
مقطع في جسم حيوان من اللاسعات.	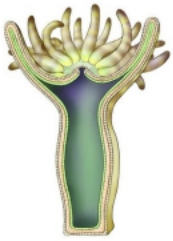
٣ – ما الطور الجسمي الذي يمثّله شكل هذا الحيوان؟ الطور البوليبي	
٤ – ما وظيفة اللوامس في الحصول على الغذاء؟ تساعد على الإمساك بالفريسة وإيصالها إلى الفم.	

انتهت الأسئلة، مع تمنياتنا بالتوفيق

لكل فقرة درجة واحدة

حقيبتي
www.haqibati.net

المملكة العربية السعودية وزارة التعليم إدارة التعليم ..... مدرسة	وزارة التعليم Ministry of Education	المادة	الأحياء ١
		الاختبار	الفترة الثانية
		الصف	الأول الثانوي
		الفصل الدراسي	الأول
		العام الدراسي	١٤٤٨ هـ

اسم الطالب/ة	.....	الدرجة	..... من ٢٠

السؤال الأول | اختر الإجابة الصحيحة			٦ درجات
١ - ما طريقة التكاثر إذا انقسم الغزل الفطري إلى قطع يمكن أن تنمو منفردة؟			
(أ) التبرعم	(ب) الاقتران	(ج) التجزّؤ	(د) الإخصاب
٢ - إلى أيّ شُعبة فطرية ينتمي فطر المشروم؟			
(أ) الكيسية	(ب) الدعامية	(ج) اللزجة المختلطة	(د) الاقترانية
٣ - أيّ فطر يُستخدم لصنع الخبز وينتج غاز ثاني أكسيد الكربون؟			
(أ) المشروم	(ب) عفن الخبز	(ج) الكمأة	(د) الخميرة
٤ - ما المصطلح الذي يصف تَركُّز أعضاء الحس في مقدّمة جسم الحيوان؟			
(أ) تميّز الرأس	(ب) التقسيم	(ج) التناظر الشعاعي	(د) التغذي الترشيحي
٥ - ما الذي يتكوّن من الفتحة الجنينية الأولى عند بدائيات الفم؟			
(أ) الشرج	(ب) التجويف الجسمي	(ج) الفم	(د) الطبقة الوسطى
٦ - كيف يستجيب الإسفنج للمس؟			
(أ) بتغيير لونه	(ب) بإغلاق ثقوبه	(ج) بإنتاج الأبواغ	(د) بالسباحة بعيدًا

السؤال الثاني | ضع كلمة «صح» أو «خطأ» أمام كل عبارة	٤ درجات
العبارة	الإجابة
١ - تتكوّن الأبواغ الجنسية للفطريات الدعامية داخل كيس.	( )
٢ - يمكن أن تعيش بعض الفطريات في علاقة تبادل منفعة مع نباتات.	( )
٣ - تنمو الطبقة الخارجية للجنين لتكوّن بطانة القناة الهضمية.	( )
٤ - تعيش معظم اللاسعات في المياه المالحة.	( )

حقيبتي
www.haqibati.net

السؤال الثالث | صل كل وصف بمصطلحه بكتابة الحرف المناسب		٤ درجات
الوصف	الحرف	المصطلح
١ - تراكيب فطرية تنمو في أنسجة العائل وتمتصّ غذاءه.	( )	(أ) التقسيم
٢ - خلايا تكاثرية يمكن أن تنمو لتكوّن فطرًا جديدًا.	( )	(ب) التجويف الجسمي الكاذب
٣ - ترتيب أجزاء جسم الحيوان في قطع متكرّرة.	( )	(ج) الأبواغ
٤ - تجويف يتكوّن بين الطبقتين الوسطى والداخلية.	( )	(د) الممصّات

السؤال الرابع | صنّف الأمثلة وفق الخاصية المحددة		٤ درجات
تطفّلي | رميّ | له أنسجة حقيقية | عديم الأنسجة		
المثال	الخاصية	التصنيف
١ - فطر يتغذّى على بقايا نبات ميت.	طريقة التغذّي	.....
٢ - فطر يتغذّى على نبات حيّ ويضرّه.	طريقة التغذّي	.....
٣ - الإسفنج	وجود الأنسجة	.....
٤ - قنديل البحر	وجود الأنسجة	.....

السؤال الخامس | تأمّل الصور ثم أجب	درجتان
١ - ما اسم الجزء الظاهر فوق سطح التربة في فطر المشروم؟	
٢ - ما اسم الطور الجنيني الموضّح في الشكل ذي الفتحة عند أحد طرفيه؟	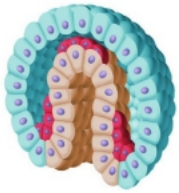

انتهت الأسئلة، مع تمنياتنا بالتوفيق

لكل فقرة درجة واحدة

حقيبتي
www.haqibati.net

نموذج الاجابة

المادة	الأحياء ١	المملكة العربية السعودية وزارة التعليم Ministry of Education	المملكة العربية السعودية وزارة التعليم إدارة التعليم ..... مدرسة .....
الاختبار	الفترة الثانية		
الصف	الأول الثانوي		
الفصل الدراسي	الأول		
العام الدراسي	١٤٤٨ هـ		

اسم الطالب/ة	.....	الدرجة	..... من ٢٠

السؤال الأول | اختر الإجابة الصحيحة			٦ درجات
١ - ما طريقة التكاثر إذا انقسم الغزل الفطري إلى قطع يمكن أن تنمو منفردة؟			
(أ) التبرعم	(ب) الاقتران	(ج) التجزّؤ	(د) الإخصاب
٢ - إلى أيّ شُعبة فطرية ينتمي فطر المشروم؟			
(أ) الكيسية	(ب) الدعامية	(ج) اللزجة المختلطة	(د) الاقترانية
٣ - أيّ فطر يُستخدم لصنع الخبز وينتج غاز ثاني أكسيد الكربون؟			
(أ) المشروم	(ب) عفن الخبز	(ج) الكمأة	(د) الخميرة
٤ - ما المصطلح الذي يصف تَركُّز أعضاء الحس في مقدّمة جسم الحيوان؟			
(أ) تميّز الرأس	(ب) التقسيم	(ج) التناظر الشعاعي	(د) التغذي الترشيحي
٥ - ما الذي يتكوّن من الفتحة الجنينية الأولى عند بدائيات الفم؟			
(أ) الشرج	(ب) التجويف الجسمي	(ج) الفم	(د) الطبقة الوسطى
٦ - كيف يستجيب الإسفنج للمس؟			
(أ) بتغيير لونه	(ب) بإغلاق ثقوبه	(ج) بإنتاج الأبواغ	(د) بالسباحة بعيدًا

السؤال الثاني | ضع كلمة «صح» أو «خطأ» أمام كل عبارة	٤ درجات
العبارة	الإجابة
١ - تتكوّن الأبواغ الجنسية للفطريات الدعامية داخل كيس.	خطأ
٢ - يمكن أن تعيش بعض الفطريات في علاقة تبادل منفعة مع نباتات.	صح
٣ - تنمو الطبقة الخارجية للجنين لتكوّن بطانة القناة الهضمية.	خطأ
٤ - تعيش معظم اللاسعات في المياه المالحة.	صح

حقيبتي
www.haqibati.net

السؤال الثالث | صل كل وصف بمصطلحه بكتابة الحرف المناسب		٤ درجات
الوصف	الحرف	المصطلح
١ - تراكيب فطرية تنمو في أنسجة العائل وتمتصّ غذاءه.	د	(أ) التقسيم
٢ - خلايا تكاثرية يمكن أن تنمو لتكوّن فطرًا جديدًا.	ج	(ب) التجويف الجسمي الكاذب
٣ - ترتيب أجزاء جسم الحيوان في قطع متكرّرة.	أ	(ج) الأبواغ
٤ - تجويف يتكوّن بين الطبقتين الوسطى والداخلية.	ب	(د) الممصّات

السؤال الرابع | صنّف الأمثلة وفق الخاصية المحددة		٤ درجات
تطفّلي | رميّ | له أنسجة حقيقية | عديم الأنسجة		
المثال	الخاصية	التصنيف
١ - فطر يتغذّى على بقايا نبات ميت.	طريقة التغذّي	رميّ
٢ - فطر يتغذّى على نبات حيّ ويضرّه.	طريقة التغذّي	تطفّلي
٣ - الإسفنج	وجود الأنسجة	عديم الأنسجة
٤ - قنديل البحر	وجود الأنسجة	له أنسجة حقيقية

السؤال الخامس | تأمّل الصور ثم أجب	درجتان
١ - ما اسم الجزء الظاهر فوق سطح التربة في فطر المشروم؟ الجسم الثمري	
٢ - ما اسم الطور الجنيني الموضّح في الشكل ذي الفتحة عند أحد طرفيه؟ الجاسترولا	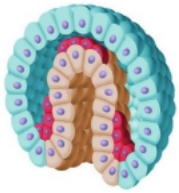

انتهت الأسئلة، مع تمنياتنا بالتوفيق

لكل فقرة درجة واحدة

حقيبتي
www.haqibati.net

المملكة العربية السعودية وزارة التعليم الإدارة العامة للتعليم مدرسة /		التاريخ : /٦/ ١٤٤٨ هـ زمن الإجابة (ساعة) الصف الاول ثانوي
اختبار مادة الاحياء (الفترة الثانية) الفصل الدراسي الأول للعام الدراسي١٤٤٨هـ		

اسم الطالب / ..... الفصل /.....

السوال الاول: اختار الاجابة الصحيحه فيما يلي:

1- اي مما ياتي يستخدم في كل من التكاثر الجنسي واللاجنسي؟ :			
☐ الامشاج	☐ التجزؤ	☐ التبرعم	☐ الابواغ
2- اي الشعب الفطريه الاتيه افرادها لها ابواغ سوطية؟ :			
☐ الدعامية	☐ الكيسية	☐ الاقترانية	☐ اللزجة المختلطة
3- الطلائعيات الذاتية التغذي هي :			
☐ الطحالب	☐ الاوليات	☐ الفطريات الغروية	☐ الفطريات المائية
4- ماذا يسمى السطح السفلي الفاتح اللون في الضفدع؟ :			
☐ ظهري	☐ أمامي	☐ بطني	☐ خلفي
5- اي الصفات الاتية ليس لها علاقة بلاسفنج ؟ :			
☐ التغذي الترشيحي	☐ وجود الانسجة	☐ الهضم داخل الخلايا	☐ عديم التناظر

حقيبتي www.haqibati.net

السوال الثاني: اكمل الفراغات الاتية:

1. هي فواصل الجدران بين الخلايا الخيوط الفطرية.	.....
2. المادة القوية المرنة العديدة التسكر التي تدخل في تركيب الجدر الخلوية للفطريات	.....
3. هو الخيوط الموجودة في فطر معين.	.....
4. الغطاء الخارجي الصلب الذي يشكل دعامة.	.....
5. الحيوان الذي ينتج كلا من البويضة والحيوان المنوي.	.....

السوال الثالث: ضع علامة (√) إذا كانت الإجابة صحيحة، وعلامة (×) إذا كانت العبارة خاطئة

1	التناظر الاشعاعي هو عبر اي مستوى يمر من خلال محوره المركزي الى نصفين متساويين	
2	الجسم الثمري يكون تحت سطح التربة	
3	تمتلك الفطريات التطفلية ممصات	
٤	الجدار الخلوي في الفطريات يتكون من السليلوز	
٥	الفطريات الناقصة تتكاثر جنسيا ولا جنسيا	

	التاريخ : /٦/ ١٤٤٨ هـ
	زمن الإجابة (ساعة)
	الصف الاول ثانوي
	سي الأول للعام الدراسي١٤٤٨هـ

نموذج الاجابة

اسم الطالب / ..... الفصل /.....

السوال الاول: اختار الاجابة الصحيحه فيما يلي:

1- اي مما ياتي يستخدم في كل من التكاثر الجنسي واللاجنسي؟ :			
☐ الامشاج	☐ التجزؤ	☐ التبرعم	☐ الابواغ
2- اي الشعب الفطريه الاتيه افرادها لها ابواغ سوطية؟ :			
☐ الدعامية	☐ الكيسية	☐ الاقترانية	☐ اللزجة المختلطة
3- الطلائعيات الذاتية التغذي هي :			
☐ الطحالب	☐ الاوليات	☐ الفطريات الغروية	☐ الفطريات المائية
4- ماذا يسمى السطح السفلي الفاتح اللون في الضفدع؟ :			
☐ ظهري	☐ أمامي	☐ بطني	☐ خلفي
5- اي الصفات الاتية ليس لها علاقة بلاسفنج ؟ :			
☐ التغذي الترشيحي	☐ وجود الانسجة	☐ الهضم داخل الخلايا	☐ عديم التناظر

السوال الثاني: اكمل الفراغات الاتية:

1. هي فواصل الجدران بين الخلايا الخيوط الفطرية.	الحواجز
2. المادة القوية المرنة العديدة التسكر التي تدخل في تركيب الجدر الخلوية للفطريات	الكايتين
3. هو الخيوط الموجودة في فطر معين.	الغزل الفطري
4. الغطاء الخارجي الصلب الذي يشكل دعامة.	الهيكل الخارجي
5. الحيوان الذي ينتج كلا من البويضة والحيوان المنوي.	الخنثى

السوال الثالث: ضع علامة (√) إذا كانت الإجابة صحيحة، وعلامة (×) إذا كانت العبارة خاطئة

1	التناظر الاشعاعي هو عبر اي مستوى يمر من خلال محوره المركزي الى نصفين متساويين	√
2	الجسم الثمري يكون تحت سطح التربة	×
3	تمتلك الفطريات التطفلية ممصات	√
٤	الجدار الخلوي في الفطريات يتكون من السليلوز	×
٥	الفطريات الناقصة تتكاثر جنسيا ولا جنسيا	×

حقيبتي www.haqibati.net